5. Sınıf

Ülkemize Komşu Devletler

5.2.4

Ülkemize komşu devletler hakkında bilgi toplayabilme

a) Ülkemize komşu devletlerle ilgili bilgilere ulaşmak amacıyla kullanacağı kaynaklarıbelirler.

b) Ülkemize komşu devletlerle ilgili bilgileri belirlediği kaynaklardan bulur.

c) Ülkemize komşu devletlerle ilgili belirlediği kaynaklardan edindiği bilgileri doğrular.

ç) Ülkemize komşu devletlerle ilgili belirlediği kaynaklardan edindiği bilgileri kaydeder.

Engin DEMİRCİ

5. Sınıf

Ülkemize Komşu Devletler

5.2.4

Ülkemize komşu devletler hakkında bilgi toplayabilme

a) Ülkemize komşu devletlerle ilgili bilgilere ulaşmak amacıyla kullanacağı kaynaklarıbelirler.
b) Ülkemize komşu devletlerle ilgili bilgileri belirlediği kaynaklardan bulur.
c) Ülkemize komşu devletlerle ilgili belirlediği kaynaklardan edindiği bilgileri doğrular.
ç) Ülkemize komşu devletlerle ilgili belirlediği kaynaklardan edindiği bilgileri kaydeder.

Engin DEMİRCİ

Milli bağımsızlık Nedir?

Bir milletin kendi topraklarında hiçbir gücün etkisinde olmadan özgürce yaşayabilmesidir.

Bayrağımız
İstiklal Marşı
Paramız
Bağımsızlık sembolleri
Başkentimiz
Türkçemiz
Meclisimiz

Ülkemizin hem Asya kıtasında hem Avrupa kıtasında toprakları bulunmaktadır. Türkiye'nin Asya kıtasındaki topraklarına Anadolu, Avrupa'daki topraklarına ise Trakya adı verilir.

Bir ülkenin kara veya deniz yoluyla doğrudan temas ettiği diğer ülkelere Sınır Komşuları denir.

Yunanistan

Başkent: Atina

Yüzölçümü: 131,957 km2

Yönetim: cumhuriyet

Para birimi: EURO

Resmi dil: Yunanca

Toplam nüfus: 11,43 milyon

Ülkemizin kurucusu olan Mustafa Kemal Atatürk'ün doğduğu Selanik şehri de bu ülkenin sınırları içinde bulunmaktadır.

Türkiye'nin batısında bulunan bir Balkan ülkesidir.

Avrupa Birliği Üye

NATO Üye

Türklerin yoğun olarak yaşadığı ülkelerden biridir. Uzun bir süre Osmanlı yönetiminde kalmıştır.

Kara ve deniz sınırımız vardır.

Örnek Soru

Başkenti: Atina
Yönetim Sekli: Cumhuriyet
Para Birimi: Euro
Nüfusu: 11,43 milyon

Bu bilgileri verilen komşu devletimiz aşağıdakilerden hangisidir?

A) Bulgaristan

B) Gürcistan

C) Azerbaycan

D) Yunanistan

Bulgaristan

Başkent: Sofya

Resmi dil: Bulgarca

Yönetim Şekli:Cumhuriyet

Para birimi:Leva

Üye:Avrupa Birliği ,NATO

Nüfus:6.757.689

Türkiye'nin kuzeybatısında yer alan bir Balkan ülkesidir.

Bulgaristan ve Türkiye'nin sınır uzunluğu 269 kilometredir

Bulgaristan ile aramızda Kapıkule Sınır Kapısı bulunmaktadır.

Nüfusunun bir bölümü Türklerden oluşan Bulgaristan ile Türkiye arasında güçlü tarihî ve kültürel bağlar vardır.

Örnek Soru

Başkenti: SOFYA
Yönetim Şekli: Cumhuriyet
Para Birimi: Leva
Nüfusu: 6.757.689
Türk Nüfusu: Nüfusun %8.4'ü

Bu bilgileri verilen komşu devletimiz aşağıdakilerden hangisidir?

A) Bulgaristan

B) Gürcistan

C) Ermenistan

D) Yunanistan

Suriye

Başkent: Şam

Yüzölçümü:185,180 km2
Suriye, ülkemizin en uzun sınır hattına sahip olduğu komşusudur.

Hükümet biçimi: Yarı başkanlık cumhuriyeti

Para birimi: Suriye Lirası (SYP)

Resmi dili, Arapçadır.

Cilvegözü Sınır Kapımız vardır.

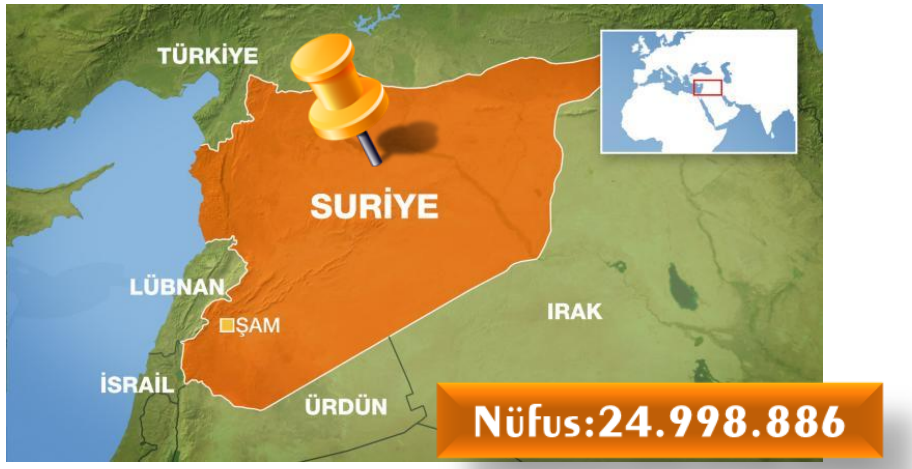

Türkiye'nin güneyinde yer alır.

Birleşmiş Milletler Üye

Yaşanan iç savaştan dolayı ülkemizde Suriyeli insanları misafir etmekteyiz.

Kara ve deniz sınırımız vardır.

Örnek Soru

Başkenti Şam'dır; en uzun sınırımızın ve en fazla sınır kapımızın bulunduğu komşumuzdur.

Hakkında bilgi verilen sınır komşumuz aşağıdakilerden hangisidir?

A) Irak

Suriye

C) Bulgaristan

D) Ermenistan

IRAK

Başkent: Bağdat

Resmi dili, Arapça ve Kürtçedir.

Yönetim şekli cumhuriyet

Para birimi Irak dinarı (IQD)

Habur Sınır Kapısı

Türkiye'nin güneyinde yer alır.

Birleşmiş Milletler Üye

Irak ile aramızda güçlü tarihî ve kültürel bağlar vardır. Irak, Türklerin yüzyıllardır yaşadığı ülkelerden biridir.

Örnek Soru

Güney komşumuz Irak'ın başkenti Bağdat'tır. Nüfusu 46 milyon olan Irak ile aramızda güçlü tarihi ve kültürel bağlar vardır. Irak, Türklerin yüzyıllardır yaşadığı ülkelerden biridir. Türkiye, Irak Türklerini bu ülke ile arasında bir dostluk köprüsü olarak görmektedir.

Bu metinden hareketle Irak'la İlgili aşağıdakilerden hangisine ulaşılamaz?

A)Türkiye'nin güneyinde yer aldığına

B)Türkiye ile diplomatik ilişkilerinin olduğuna

C)Topraklarında Türk nüfusunun olduğuna

D) Para biriminin dinar olduğuna

İran

Başkent: Tahran

Resmi dili: Farsça

Yüzölçümü: 1,648,195 km2
Yüz ölçümü Türkiye'nin iki katı kadardır.

Toplam nüfus : 91.567.738

Yönetim şekli
Teokratik cumhuriyettir.

Para birimi
İran riyali (IRR)

İki ülke arasındaki en önemli geçit noktası Ağrı ilimizdeki Gürbulak Sınır Kapısı'dır.

Türkiye'nin doğusunda yer alır.

Dil

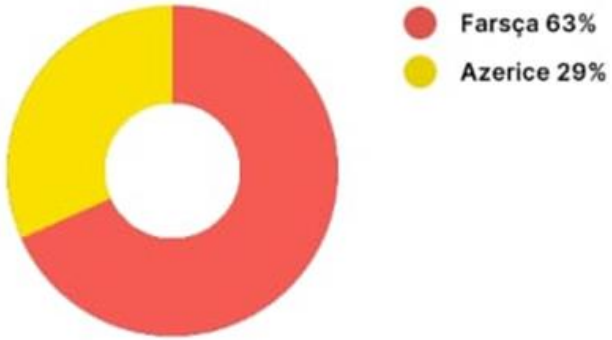

Örnek Soru

Başkenti Tahran'dır. Yüz ölçümü Türkiye'nin iki katı kadardır. İki ülke arasındaki en önemli geçit noktası tarihî İpek Yolu üzerinde bulunan Ağrı ilimizdeki Gürbulak Sınır Kapısı'dır.

Bu bilgileri verilen komşu devletimiz aşağıdakilerden hangisidir?

A) Suriye

B) Irak

C) İran

D) Ermenistan

Azerbaycan

Başkent
Bakü

Yüzölçümü
86,600 km²

Cumhuriyet / Başkanlık Sistem

Para birimi
Azerbaycan manatı (AZN)

Birleşmiş Milletler
Üye

Tek millet iki devlet" olarak anıldığımız kardeş ülkemizdir.

Azerbaycan Türk Cumhuriyetleri arasındadır. Bu sebeple tarihi ve kültürel bağlarımız zengindir.

Nahçıvan özerk cumhuriyeti

Başkent : Bakü

Resmi dil: Azerice

Yönetim şekli: özerk cumhuriyet

Para birimi: Azerbaycan manatı

Nüfus:465.194

Azerbaycan'a bağlı olan Nahçıvan Özerk Cumhuriyeti ile Türkiye Cumhuriyeti'nin sınırı 18 kilometre olup, Türkiye'nin sahip olduğu en kısa sınır olarak öne çıkmaktadır.

Azerbaycan'ın ülkemiz ile tek kara sınırını Nahçıvan Özerk Cumhuriyeti oluşturmaktadır. Nahçıvan Özerk Cumhuriyeti, Türkiye, İran ve Ermenistan arasında denize kıyısı olmayan Azerbaycan'a bağlı özerk bir cumhuriyettir.

Türk kapısı olarak adlandırılan Nahçıvan, Azerbaycan ile bağlantıyı sağlamaktadır. Aramızda Dilucu Sınır Kapısı bulunmaktadır.

Örnek Soru

Azerbaycan ile Türkiye arasındaki ilişki "Tek millet, iki devlet" sloganıyla tanımlanmaktadır. Her iki devlet de Türk devleti olduğu için pek çok ortak yönü bulunmaktadır. Bu ortak yönlerden biri de Azerbaycan'a bağlı özerk bir cumhuriyettir. Azerbaycan'la doğrudan kara sınırı olmayan bu özerk yönetim Türkiye ile komşu olup halkı ihtiyaçlarının büyük bir bölümünü Türkiye'den karşılamaktadır.

Metinde özellikleri verilen sınır komşumuz aşağıdakilerden hangisidir?

A) İran

B) Suriye

C) Gürcistan

✔ Nahçıvan

ERMENİSTAN

Başkent
Erivan

Yüzölçümü
29,743 km²

Hükümet biçimi
Parlementer Cumhuriyet

Para birimi
Ermeni dramı (AMD)

Resmi dili
Ermenice

Türkiye'nin doğusunda yer alır.

Birleşmiş Milletler Üye

Türkiye ile aralarında bulunan Akuaka ve Alican Sınır Kaplan kapalıdır.

GÜRCİSTAN

Başkenti: Tiflis

Resmi dil: Gürcüce

Yönetim şekli cumhuriyet

Para birimi :Lari

Sınır Kapsı : Sarp

Nüfus: 3.807.670

Türkiye'nin kuzeydoğusunda yer alır.



Birleşmiş Milletler Üye

Kara ve deniz sınırımız vardır.

Atatürk barışı isteyen bir kişiydi. Bu yüzden komşu ülkeler ile hep barışçı politikalar izledi.

1934 ile 1937 yılları arasında Yunanistan, İran, Irak gibi komşu ülkelerle ortak düşmanlara karşı siyasi ,askeri ,ekonomik işbirliği yapılmıştır.

Örnek Soru

"Komşuları ile ve bütün devletlerle iyi geçinmek Türkiye siyasetinin esasıdır "

Atatürk bu sözüyle Türk dış politikasının dayandığı esaslardan hangisini vurgulamıştır?

A) Yayılmacılığı

B) Güvenliği

C) Tam Bağımsızlığı

D) Barışçılığı

Türkiye, gerek siyasi, gerek ekonomik açıdan bir dünya devleti olmak hedefi çerçevesinde, öncelikle bölgesindeki konumunu siyasi ve ekonomik açıdan güçlendirmek durumundadır. Bu çerçevede, komşuları ile ekonomik ve ticari ilişkilerinin geliştirilmesine büyük önem vermektedir.

Ülkemizin doğusundaki kara sınırımız olan komşu devletler hangileridir?
Ülkemizin güneyindeki kara sınırımız olan komşu devletler hangileridir?
Bulgaristan
Gürcistan
Ermenistan
Azerbaycan
Nöc
Yunanistan
İran
Suriye
Irak
Ülkemizin batısındaki kara sınırımız olan komşu devletler hangileridir?
Haritadan yararlanarak ülkemizin göreceli konumunu tanımlayınız.

TÜRKİYE
1
Bulgaristan
2
Yunanistan
3
Suriye
4
Irak
5
İran
6
Nahçıvan
7
Ermenistan
8
Gürcistan

Komşu ülkelerle sınırı olan illerimiz hangileridir?

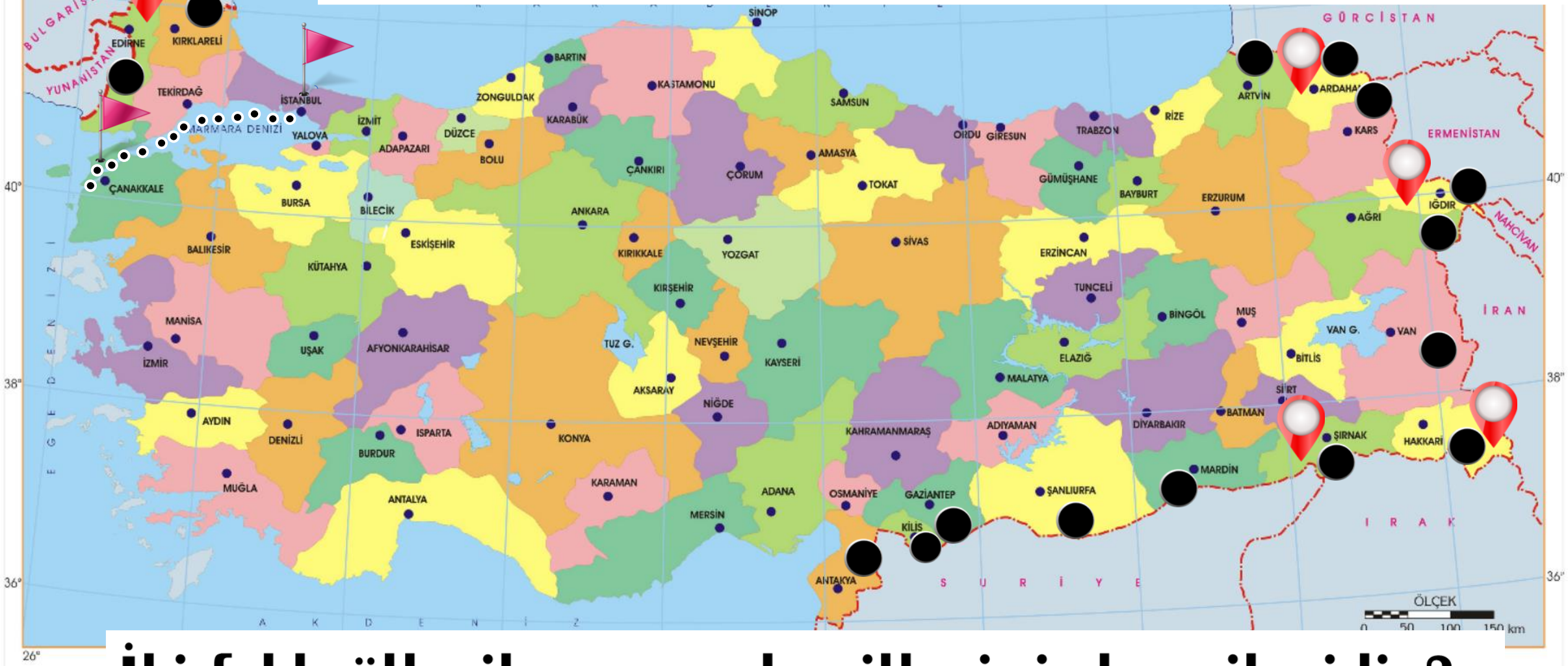

İki faklı ülke ile sınırı olan illerimiz hangileridir?

Asya ve Avrupa kıtalarında toprağı bulunan illerimiz hangileridir.

Örnek Soru

Aşağıdaki komşu ülkelerlerden hangisi Avrupa kıtasında yer alır?

A)Yunanistan

B) İran

C) Gürcistan

D) Suriye

Örnek Soru

Haritada sınır komşusu olduğumuz ülkeler gösterilmiştir.

Harita incelendiğinde aşağıdakilerden hangisinin ülkemizin doğu komşularından biri olduğu <u>söylenemez?</u>

A) İran

B) Gürcistan

C) Ermenistan

D) Bulgaristan

Bağımsızlık sembollerimizden biride İstiklal Marşımızdır.

Gürcistan, ülkemizin kuzeydoğu yönündeki komşusudur.

Nahçıvan Azerbaycan'a bağlı özerk cumhuriyettir.

Türkiye'nin en uzun kara sınırı en fazla sınır kapısı Irak iledir.

GELECEK DERS

ABONE OL

Kanalımın adresini ziyaret edip ,kanalımı takip edebilirsiniz.

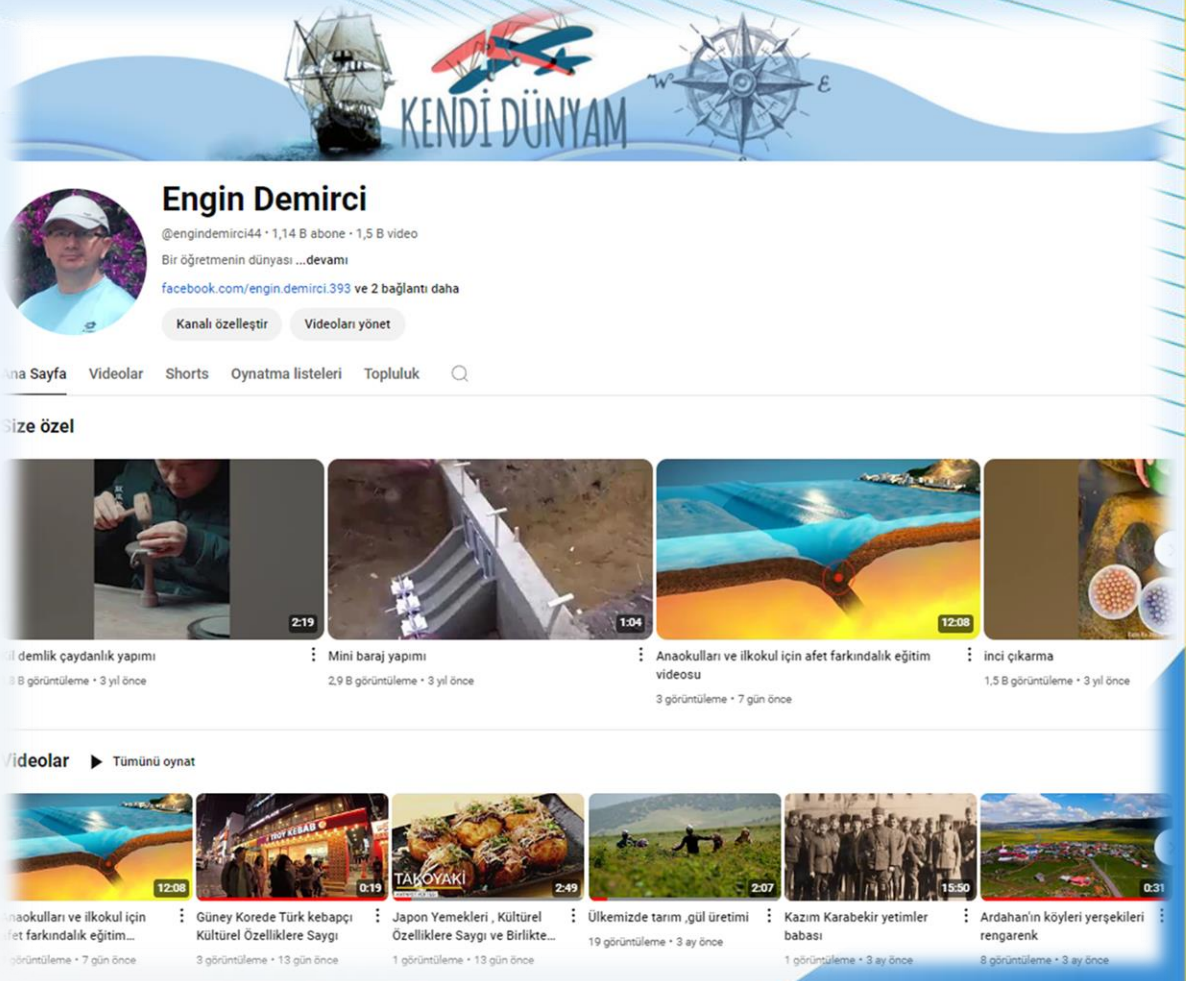

https://www.youtube.com/@engindemirci44